Lundi 6 avril

Calcul

1) Pose et effectue.

2 546 – 1 478 ; 5 632 – 2 857 ; 7 124 – 3 698

		4	$_{1}3$	
	2	~~5~~	~~4~~	$_{1}6$
-	1	4	7	8
	1	0	6	8

	4	$_{1}5$	$_{1}2$	
	~~5~~	~~6~~	~~3~~	$_{1}2$
-	2	8	5	7
	2	7	7	5

	6	$_{1}0$	$_{1}1$	
	~~7~~	~~1~~	~~2~~	$_{1}4$
-	3	6	9	8
	3	4	2	6

2) Pose et effectue.

6 324 x 8 ; 7 254 x 9 ; 632 x 27 ; 2 563 x 45

	6	3	2	4
x				8
5	0	5	9	2

	7	2	5	4
x				9
6	5	2	8	6

		6	3	2
	x		2	7
	4	4	2	4
1	2	6	4	0
1	7	0	6	4

		2	5	6	3
	x			4	5
	1	2	8	1	5
1	0	2	5	2	0
1	1	5	3	3	5

3) Pose et effectue.

12 546 : 7 ; 24 365 : 8 ; 41 658 : 9

	1	2	5	4	6	7
-		7				1 7 9 2
	0	5	5			
	-	4	9			
		0	6	4		
		-	6	3		
			0	1	6	
			-	1	4	
				0	2	

	2	4	3	6	5	8
-	2	4				3 0 4 5
0	0	3				
	-	0				
		3	6			
	-	3	2			
		0	4	5		
		-	4	0		
			0	5		

	4	1	6	5	8		9	
-	3	6				4	6	2	8
	0	5	6					
	-	5	4					
		0	2	5				
		-	1	8				
			0	7	8			
			-	7	2			
				0	6			

4) Pose et effectue.

5 413 : 12 ; 9 236 : 15 ; 24 367 : 22

	5	4	1	3		1	2
-	4	8				4	5	1
	0	6	1				
	-	6	0				
		0	1	3			
		-	1	2			
			0	1			

	9	2	3	6		1	5
-	9	0				6	1	5
	0	2	3				
	-	1	5				
		0	8	6			
		-	7	5			
			1	1			

	2	4	3	6	7		2	2	
-	2	2				1	1	0	7
	0	2	3						
	-	2	2						
			1	6					
		-	0	0					
			1	6	7				
		-	1	5	4				
			0	1	3				

Géométrie

1 Colorie la bonne réponse

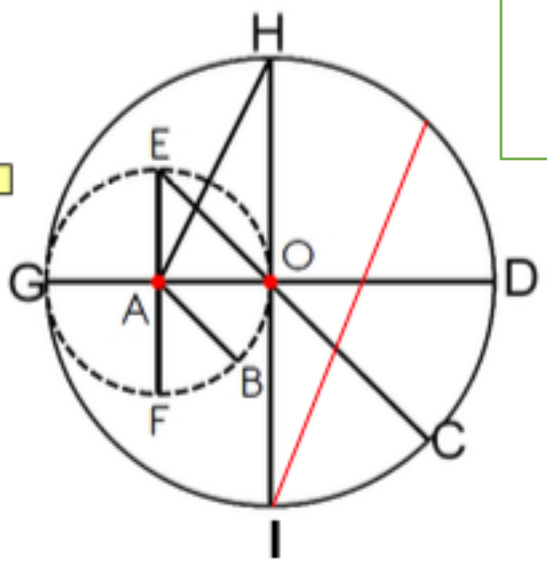

1-C'est le centre du grand cercle : A ☐ O ☐ C ☐

2-C'est un rayon du petit cercle : [EF] ☐ [AH] ☐ [AB] ☐

3- Ce sont les diamètres du grand cercle :

[GD] ☐ [OI] ☐ [EF] ☐ [HI] ☐ [CD] ☐

4-Trace une corde du grand cercle

2 Vrai ou faux

Un cercle a une infinité de rayons ..... V F

La longueur du rayon est le double de celle du diamètre..... V F

Tous les points d'un cercle sont à la même distance du centre ..... V F

3 Reproduis la figure

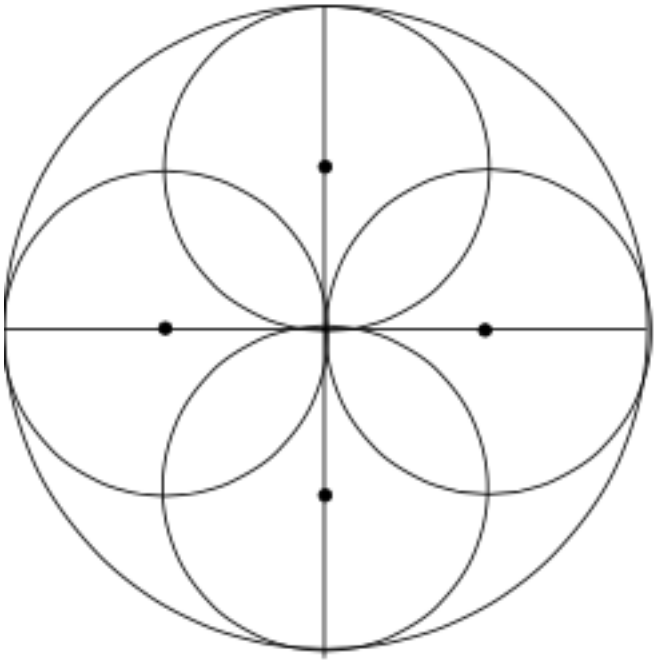

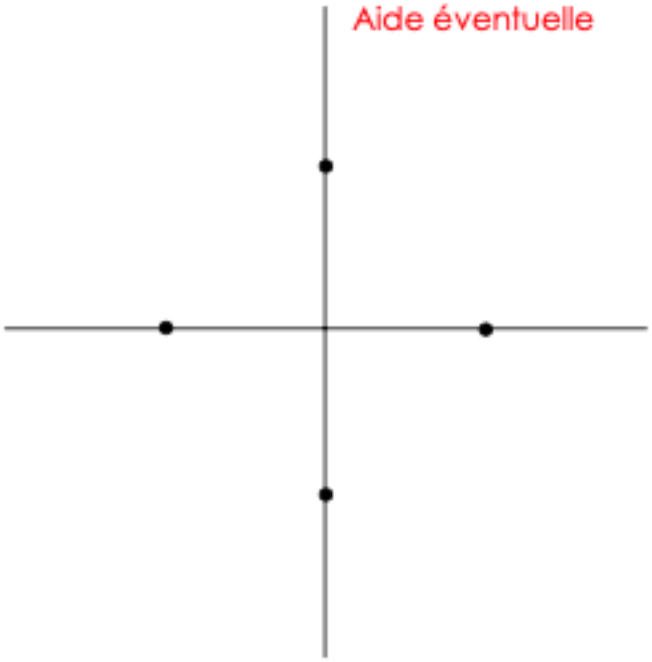

4 **Suis le programme de construction suivant :**

1- Sur une droite, place les points A, B et C tels que [AB] = 2 cm; [BC] = 4 cm; B est entre A et C.

2- Trace le cercle de centre A passant par B.

3- Trace le cercle de diamètre [BC].

4- Trace le cercle de centre B et de rayon 4 cm.

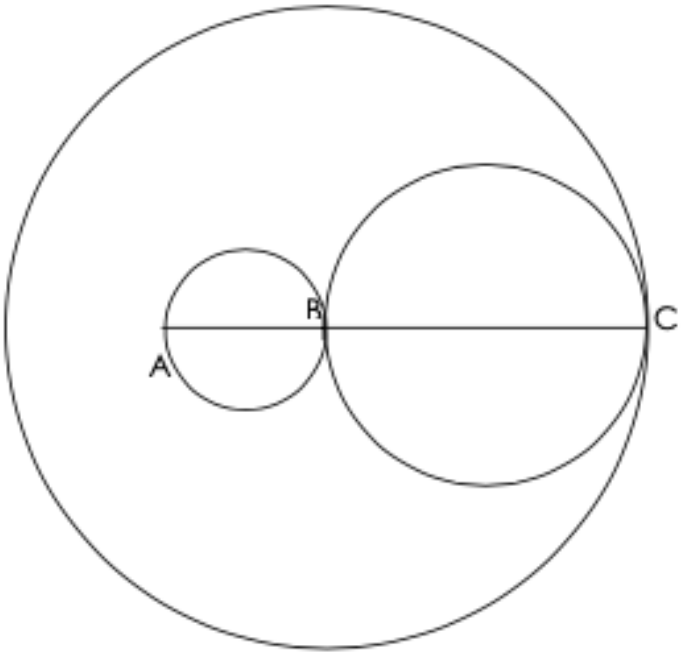

1- Trace un cercle de centre O et de rayon r=2cm

2- Trace le diamètre [LM]

3- Trace le cercle de centre L et de rayon [LO]

4- Trace le point K milieu de[LO]
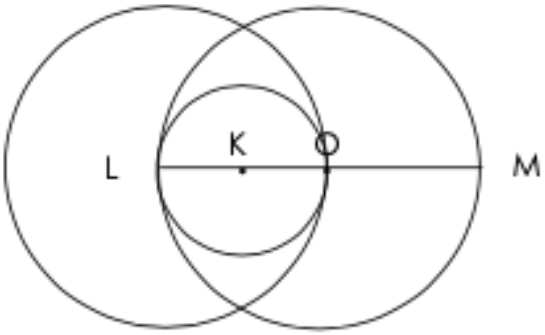
5- Trace le cercle de centre K et de <u>diamètre</u> [LO]